www.tkdu.lk

08. 

இக்கடிகார முகம் காட்டும் நேரத்திற்கு அரை மணித்தியாலம் பிந்திய நேரம் யாது ?

1) 10மணி 30 நிமிடம்
2) 10மணி
3) 11மணி

09. 

இக்கடிகார முகம் காட்டும் நேரம் யாது ?

1) காலை 10 மணி
2) இரவு 10 மணி
3) கூறமுடியாது

● எண்கோலத்தின் புள்ளிக்கோட்டில் வரவேண்டிய எண்ணைத் தெரிவு செய்க.

10. 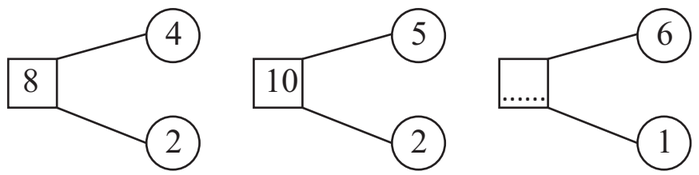

1) 6
2) 5
3) 4

11. 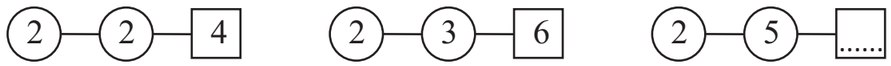

1) 10 2) 9 3) 8

● கீழே கட்டத்தினுள் பிராணிகள் சிலவற்றின் படங்கள் தரப்பட்டு அப்படங்கள் குறிக்கும் ஆங்கில எழுத்துக்களும் தரப்பட்டுள்ளன. அதனை வைத்து வினாக்களுக்கு விடை தருக.

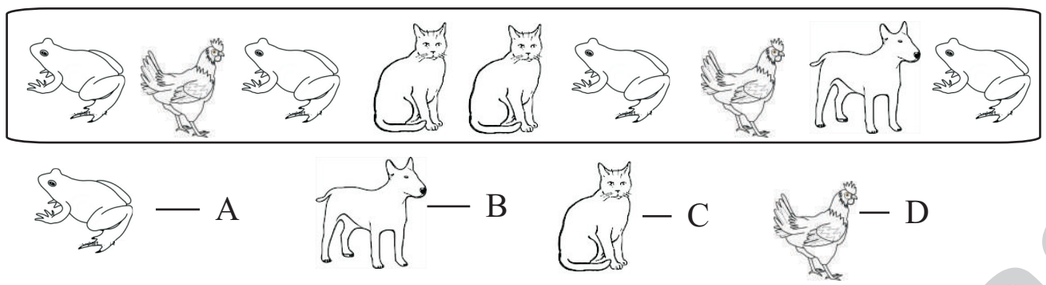

12. இங்கு மிகவும் அதிகமாகவுள்ள பிராணியைக் குறிக்கும் ஆங்கில எழுத்து எது ?

1) C 2) B 3) A

13. இங்கு மிகக் குறைவாகவுள்ள பிராணியைக் குறிக்கும் ஆங்கில எழுத்து எது ?

1) B 2) A 3) C

● பின்வரும் உருவில் நிழற்றப்பட்ட பகுதியைத் தெரிவு செய்க.

14. 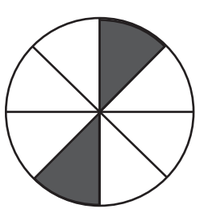

1) $\frac{1}{8}$
2) $\frac{2}{6}$
3) $\frac{2}{8}$

15. 

1) $\frac{1}{5}$
2) $\frac{2}{4}$
3) $\frac{1}{4}$

KEC 2006 KANTALE EDUCATION CENTER SCHOLARSHIP PROJECT KANTALE

2021 இல் புலமைப் பரிசில் பரீட்சை எழுதும் மாணவர்களுக்கான வழிகாட்டல் செயலட்டை

புலமை

நுண்ணறிவு – 01

Teacher
MF. Riyas Mohamed
0777 15 18 28

தரம் 3	புள்ளிகள்

பெயர் : .....

நேரம் 30 நிமிடம்

● புள்ளிக் கோட்டில் வரவேண்டிய உருவைத் தெரிவு செய்க.

01. 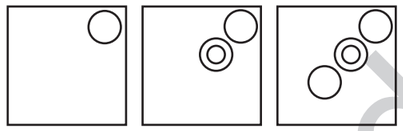

.....

1) 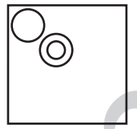
2) 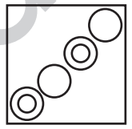
3) 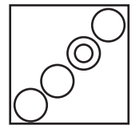

02. 

.....

1) 
2) 
3) 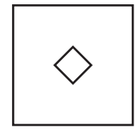

● பின்வரும் பழமொழிகளில் உள்ள வெற்றிடத்திற்குப் பொருத்தமான பகுதியை தெரிந்து கோடிடுக.

03. அடம்பன் கொடியும் ..... மிடுக்கு

1) திறண்டால் 2) திரன்டால் 3) திரண்டால்

04. அன்பான சிநேகிதனை ஆபத்தில் .....

1) அரியலாம் 2) அறியலாம் 3) அறியளாம்

● கீழே உள்ள வடிவங்களுக்கு குறிக்கப்பட்டுள்ள பெறுமதிகள்வழங்கப்பட்டுள்ளன. அதனை அடிப்படையாக வைத்து வினாக்களுக்கு விடை தருக.

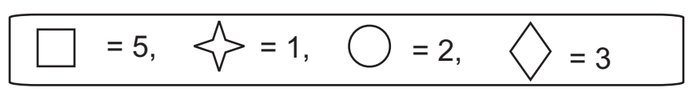

05. 231 எனும் இலக்குத்திற்குரிய வடிவத்தைத் தெரிவு செய்க.

1)  2)  3) 

06. 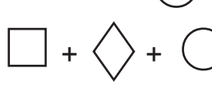 இக்கணிதச் செய்கைக்குப் பொருத்தமான பெறுமதி

1) 10 2) 11 3) 12

Riyas Mohamed

LEARN EASY

- KNOWLEDGE IS POWER -

www.learneasy.lk

மகத்தான கல்விக்கு
உங்கள் ஆசான்

ZOOM

- ICT
- Maths
- English
- Commerce
- Tamil
- History
- Science
- Sinhala
- இன்னும் பல

தரம்
01-A/L

Medium

தமிழ்/ English

76667-4945

தனித்துவமான புலமைப்பரிசில் பரீட்சை வகுப்புக்கள்
தரம் 1 தொடக்கம் 5 வரை நடைபெறுகின்றன

www.learneasy.lk || www.lkedu.lk

- முதலில் தரப்பட்டுள்ள இரு சொற்களுக்குமிடையில் ஒரு குறித்த தொடர்பு உண்டு. அடுத்துவரும் சொல்லுக்குப் பொருத்தமான பகுதியைத் தெரிவு செய்க.

07. மரம் - மரங்கள் எனின் பூ : .....
1) பூக்கள் 2) பூகள் 3) மலர்

08. பலம் - பாலம் எனின் கலம் : .....
1) களம் 2) கலாம் 3) காலம்

- சரியான விடையின் கீழ்க் கோடிடுக.

09. மரமொன்றில் அணில் ஒன்றும் கிளி ஒன்றும் காகங்கள் இரண்டும் உள்ளன. அங்குள்ள பிராணிகளின் கால்களின் எண்ணிக்கையைத் தெரிவு செய்க.
1) 04 2) 10 3) 12

10. நான்கு மாம்பழங்களின் விலை ரூபா 40.00 எனின், ரூபா 50.00 இற்கு எத்தனை மாம்பழங்கள் வாங்கலாம் ?
1) 6 2) 5 3) 4

- இடைவெளிக்குப் பொருத்தமான எண்ணைத் தெரிவு செய்க.

11. 3, 5, 7, ..., 11
1) 10 2) 9 3) 8

12.

6	8	10
4	.....	12
18	16	14

1) 2
2) 3
3) 4

- கீழுள்ள தகவல்களை அடிப்படையாகக் கொண்டு வினாக்களுக்கு விடை தருக.

வடிவங்கள்

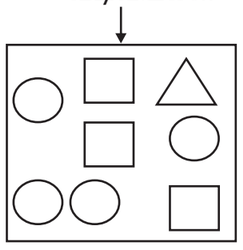

13. இங்கு அதிகம் இருப்பது
1) சதுரங்கள்
2) வடிவங்கள்
3) வட்டங்கள்

14. இங்குள்ள மொத்த வடிவங்களின் இருமடங்கு
1) 8 2) 10 3) 16

15. அதிக சமச்சீர் அச்சுக்களைக் கொண்ட வடிவம் எது ?

1)  2)  3) 

KEC 2006 KANTALE

2021 இல் புலமைப் பரிசில் பரீட்சை எழுதும் மாணவர்களுக்கான வழிகாட்டல் செயலட்டை

புலமை நுண்ணறிவு – 02

Teacher
MF. Riyas Mohamed
0777 15 18 28

தரம் 3 | புள்ளிகள்

பெயர் : ..... | நேரம் 30 நிமிடம்

- புள்ளிக் கோட்டில் வரவேண்டிய உருவைத் தெரிவு செய்க.

01. 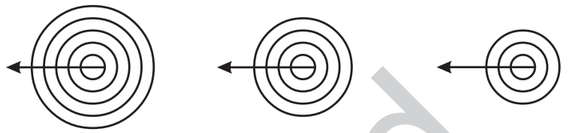 .....

1)  2)  3) 

02.   எனின்  .....

1)  2)  3) 

- பின்வரும் பழமொழிகளில் உள்ள வெற்றிடத்திற்குப் பொருத்தமான பகுதியை தெரிந்து கோடிடுக.

03. அழுத பிள்ளை ..... குடிக்கும்
1) தண்ணீர் 2) பால் 3) பானம்

04. உப்பிட்டவரை ..... நினை
1) உள்ளலவும் 2) உள்ளளவும் 3) உல்லலவும்

- வேறுபட்ட உருவின் கீழ்க் கீறிடுக.

05. 1)  2)  3) 

06. 1)  2)  3) 

07. நேற்று சனிக்கிழமை ஆகும். நாளை மறுநாள் என்ன கிழமை ஆகும் ?
1) திங்கட் கிழமை 2) செவ்வாய்க் கிழமை 3) புதன் கிழமை

www.lkdu.lk
Riyas Mohamed

08. 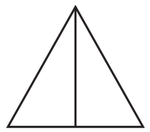

இவ்வுருவில் எத்தனை முக்கோணிகள் உள்ளன ?
1) 1
2) 2
3) 3

09. 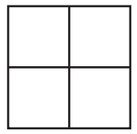

இவ்வுருவில் எத்தனை சதுரங்கள் உள்ளன ?
1) 4
2) 5
3) 6

● முதலில் தரப்பட்டுள்ள இரண்டு சொற்களுக்கும் இடையில் ஒரு குறித்த தொடர்பு உண்டு. அதே கருத்துள்ள சோடிச் சொல்லைத் தெரிவு செய்க.

10. பழம் : பழங்கள் அது போல்
1) கல் : கல்கள்
2) பல் : பட்கள்
3) மரம் : மரங்கள்

11. காலை : மாலை அது போல்
1) இரவு : பகல்
2) பூ : மரம்
3) தண்ணீர் : நீர்

12. நோயாளி : வைத்தியசாலை அது போல்
1) ஆசிரியர் : தொழில்
2) மாணவன் : பாடசாலை
3) அன்பு : பாசம்

● கீழே சில பொருட்களின் விலைகள் அடங்கிய சிட்டை ஒன்று தரப்பட்டுள்ளது அதனை வைத்து விடை தருக.

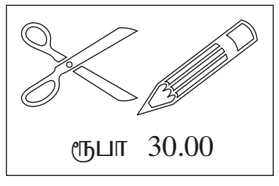

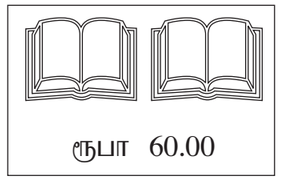



13. பென்சில் ஒன்றின் விலை யாது ?
1) 10.00
2) 15.00
3) 20.00

14. கத்தரிக்கோல் ஒன்றின் விலை யாது ?
1) 10.00 2) 15.00 3) 20.00

15. கத்தரிக்கோல் ஒன்றினதும் புத்தகம் ஒன்றினதும் விலை யாது ?
1) 50.00 2) 45.00 3) 40.00

KANTALE EDUCATION CENTER KEC 2006 SCHOLARSHIP PROJECT KANTALE

2021 இல் புலமைப் பரிசில் பரீட்சை எழுதும் மாணவர்களுக்கான வழிகாட்டல் செயலட்டை

புலமை

நுண்ணறிவு – 03

Teacher
MF. Riyas Mohamed
0777 15 18 28

தரம் 3 | புள்ளிகள் |

பெயர் : .....

நேரம் 30 நிமிடம்

● முதலில் தரப்பட்டுள்ள உருவுடன் தொடர்புடைய உருவைத் தெரிவு செய்க.

01. 

1) 

2) 

3) 

02. 

1) 

2) 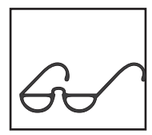

3) 

03. 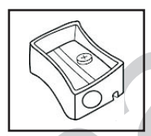

1) 

2) 

3) 

● புள்ளிக்கோட்டில் வரவேண்டிய உருவைத் தெரிவு செய்க.

04.  .....

1) 

2) 

3) 

05. 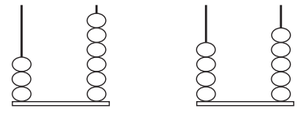 .....

1) 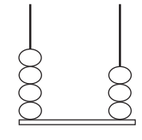

2) 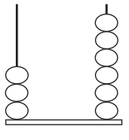

3) 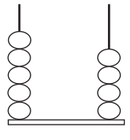

● கீழே ஒவ்வொரு கூற்றையும் கூறுகின்ற பிராணியைத் தெரிவு செய்து கீறிடுக.

06. என்னால் வேகமாக நடக்க முடியாது. ஏனென்றால் எனது வீட்டை என்னால் சுமக்க முடியாது. அதனால் நான் மெதுவாகவே நடப்பேன். நான் இரவிலேயே நடமாடுவேன்
1) முயல் 2) நத்தை 3) வௌவால்

07. நான் கூட்டாகவே சாப்பிடுவேன். நான் இல்லாவிட்டால் சூழலே அழுக்கடைந்து விடும் அதிகாலையில் எழுவேன் நான் யார் ?
1) சேவல் 2) குயில் 3) காகம்

www.lkdg.lk
Riyas Mohamed

08. நான் வீட்டில் 3 முயல்களையும் சில புறாக்களையும் வளர்க்கின்றேன். அப்பிராணிகளின் கால்களின் எண்ணிக்கை 20 ஆகும். எனின் அங்குள்ள புறாக்கள் எத்தனை ?

1) 8 2) 6 3) 4

● பின்வரும் உருவில் இடைவெளியில் வரவேண்டிய உருவைத் தெரிவு செய்க.

09. 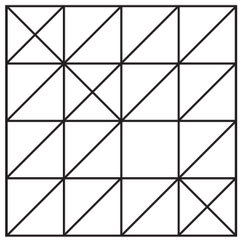

1)  2)  3) 

10. 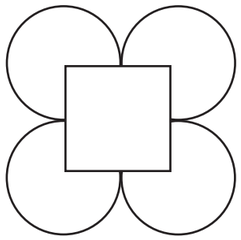

1) 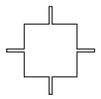 2)  3) 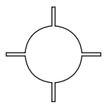

11. 

இத்தரவுகளுக்கமைய  இன் பெறுமதி யாது ?

1) 4 2) 5 3) 6

12. மேலேயுள்ள தரவுகளுக்கமைய  இன் பெறுமதி யாது ?

1) 5 2) 3 3) 2

● கீழே தரப்பட்டுள்ள பொருட்களை மேலிருந்து பார்க்கும் போது தோன்றும் வடிவத்தைத் தெரிவு செய்க.

13. 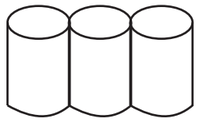

 1)
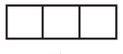 2)
 3)

14. 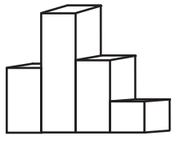

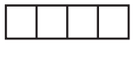 1)
 2)
 3)

15. 19 + 18 = ... புள்ளிக்கோட்டில் வரவேண்டிய எண் யாது ?

1) 38 2) 37 3) 36

KEC 2006 KANTALE EDUCATION CENTER SCHOLARSHIP PROJECT KANTALE

2021 இல் புலமைப் பரிசில் பரீட்சை எழுதும் மாணவர்களுக்கான வழிகாட்டல் செயலட்டை

புலமை

நுண்ணறிவு – 04

Teacher
MF. Riyas Mohamed
0777 15 18 28

தரம் 3 | புள்ளிகள் | பெயர் : ..... | நேரம் 30 நிமிடம்

● பின்வரும் படங்களுக்குப் பொருத்தமான சொல்லைத் தெரிவு செய்க.

01. 

1) கரைதல்
2) கூவுதல்
3) பேசுதல்

02. 

1) கரைதல்
2) நீந்துதல்
3) பறத்தல்

● பின்வரும் விடுகதைகளுக்குப் பொருத்தமான உருவைத் தெரிவு செய்க.

03. எட்டுக்கால் ஊன்றி இருகால் படமெடுத்து வட்டக் குடை பிடித்து வர்ராரு வண்ணியரு

1)  2)  3) 

04. போகுமிடமெல்லாம் கோடு கிழிப்பான் அவன் யார் ?

1)  2)  3) 

● பின்வரும் பாடலை வைத்து வினாக்களுக்கு விடை தருக.

கத்திக் கத்திக் கரையும் அக்கா - என்ன சொல்கிறார்? நம்மைக்
கல்வியில் கவனம் நன்றாய்க் - காட்டச் சொல்கிறார்.

05. மேலுள்ள பாடலில் விபரிக்கப்படும் பறவை யாது ?

1) காகம் 2) வெளவால் 3) குயில்

06. எதில் நன்றாய்க் கவனம் செலுத்தச் சொல்கிறார் ?

1) கல்வியில் 2) விளையாட்டில் 3) தூங்குவதில்

07. ஒரு மணித்தியாலத்தில் உள்ள நிமிடங்கள் எத்தனை ?

1) 40 2) 50 3) 60

www.kec.lk
Riyas Mohamed

www.kec.lk

KEC 2006 KANTALE EDUCATION CENTER SCHOLARSHIP PROJECT KANTALE

2021 இல் புலமைப் பரிசில் பரீட்சை எழுதும் மாணவர்களுக்கான வழிகாட்டல் செயலட்டை

புலமை

நுண்ணறிவு – 05

Teacher
MF. Riyas Mohamed
0777 15 18 28

தரம் 3 | புள்ளிகள் | பெயர் : ..... | நேரம் 30 நிமிடம்

● வித்தியாசமான உருவைத் தெரிவு செய்க.

01. 1)  2)  3) 

02. 1)  2)  3) 

● கீழே உள்ள வடிவங்களுக்கு சில பெறுமதிகள் வழங்கப்பட்டு அவ் வடிவங்களைக் கூட்டும் போது கிடைக்கின்ற பெறுமதிகளும் தரப்பட்டுள்ளன. அதனை வைத்து விடை தருக.



03. இதற்கேற்ப ▽ இன் பெறுமதி யாது ?

1) 5 2) 6 3) 7

04. இதற்கேற்ப □ + ○ இன் பெறுமதி யாது ?

1) 2 2) 4 3) 6

05. 10 + 6 = ... இன் பெறுமதி யாது ?

1) 106 2) 16 3) 4

06. நேற்றைக்கு முதல் நாள் திங்கட்கிழமையாகும். இன்று என்ன கிழமை ?

1) ஞாயிற்றுக்கிழமை
2) செவ்வாய்க்கிழமை
3) புதன்கிழமை

● சரியான விடையைத் தெரிவு செய்க.

08. நாளை பழைய மாணவர் சங்கக் கூட்டம் நடைபெறும். இக்கூற்று

1) அறிவித்தல் 2) அறிவுறுத்தல் 3) உரையாடல்

09. பாடசாலைக்கு நேரத்துடன் வரவேண்டும். இக்கூற்று

1) அறிவித்தல் 2) அறிவுறுத்தல் 3) உரையாடல்

● வித்தியாசமான உருவைத் தெரிவு செய்க.

10. 1)  2)  3) 

11. 1)  2)  3) 

● சரியான விடையின் கீழ்க் கோடிடுக.

12. அண்ணன் ரூபா 20.00 வைத்துள்ளான். தம்பி ரூபா 10.00 வைத்துள்ளான். இப்பணத்தை இருவரும் சமமாகப் பகிர்ந்து கொண்டால் ஒருவருக்குக் கிடைக்கும் தொகை யாது ?

1) 10.00
2) 15.00
3) 20.00

13. ஒரு வரிசையில் நீலம், மஞ்சள், சிவப்பு எனும் நிறங்களில் கொடிகள் கட்டப்பட்டிருந்தன. இவ்வரிசையில் 10வது கொடியின் நிறம் என்ன ?

1) நீலம்
2) மஞ்சள்
3) சிவப்பு

● அமீரை விட அன்வர் உயரமானவன். அன்வரை விட குமார் உயரம் என்றாலும் ரகுவைவிட உயரம் குறைவு. இதற்கேற்ப **14**ஆம் **15**ஆம் வினாக்களுக்கு விடை தருக.

14. இவர்களில் மிகவும் உயரம் குறைந்தவர் யார் ?

1) அமீர் 2) அன்வர் 3) ரகு

15. இவர்களில் மிகவும் உயரம் கூடியவர் யார் ?

1) அன்வர் 2) குமார் 3) ரகு

Riyas Mohamed

07. 2, 5, 6, 2, 5, 8, 4, 6, 1, 2, 6, 9, 6 இங்கு அதிகமாக வந்துள்ள இலக்கம்
1) 6 2) 5 3) 2

08. S, G, F, S, G, E, S, R, G, S, T, D இங்கு அதிக தடவை வந்துள்ள எழுத்து
1) F 2) S 3) G

09. என்னிடமும் எனது தம்பியிடமும் சம எண்ணிக்கையில் மாம்பழங்கள் உள்ளன. நான் எனது தம்பிக்கு 5 மாம்பழங்கள் கொடுத்தால் என்னிடம் எஞ்சுவது 5 மாம்பழங்களாகும். எனில் எங்கள் இருவரிடமும் உள்ள மொத்த மாம்பழங்கள் எத்தனை ?
1) 10 2) 15 3) 20

● இடைவெளிக்குப் பொருத்தமான எழுத்தைத் தெரிவு செய்க.

10. வெ ..... ச்சம்
1) லி 2) ளி 3) ழி

11. கட ..... கரை
1) ல் 2) ட் 3) ற்

12. வா ..... வில்
1) ன 2) ண 3) ந

● கீழே தரப்பட்டுள்ள படத்தினை வைத்து வினாக்களுக்கான விடையைத் தெரிவு செய்க.



13. சிறுமியின் வலது கைப்பக்கத்தில் இருப்பது
1) பூ
2) பென்சில்
3) இரண்டும் இல்லை

14. சிறுமியின் இடது கைப்பக்கத்தில் இருப்பதைத் தெரிவு செய்க.
1) பூ
2) பென்சில்
3) இரண்டும் இல்லை

15. நாம் உடற்பயிற்சி செய்வதன் நோக்கம்
1) விளையாட்டுப் போட்டியில் பங்குபற்றுவதற்கு
2) நேரத்தைக் கழிப்பதற்கு
3) உடலை ஆரோக்கியமாக வைத்திருப்பதற்கு

KANTALE EDUCATION CENTER KEC 2006 SCHOLARSHIP PROJECT KANTALE

2021 இல் புலமைப் பரிசில் பரீட்சை எழுதும் மாணவர்களுக்கான வழிகாட்டல் செயலட்டை

புலமை நுண்ணறிவு – 06

Teacher
MF. Riyas Mohamed
0777 15 18 28

தரம்	புள்ளிகள்
3	

பெயர் : ..... நேரம் 30 நிமிடம்

● 1-3 வரை தரப்பட்டுள்ள உருக்களுக்கு மிகப் பொருத்தமான வாக்கியத்தின் கீழ்க் கீறிடுக.

01. 
1) விமலா பூப்பறிக்கின்றாள்
2) விமலா நீர் ஊற்றுகின்றார்
3) விமலா பூக்கன்று நடுகின்றாள்

02. 
1) ஆசிரியர் பாடம் கற்கின்றார்.
2) ஆசிரியர் தமிழ் பாடம் கற்பிக்கின்றார்.
3) ஆசிரியர் கணிதப் பாடம் கற்பிக்கின்றார்.

03. 
1) பிள்ளை கணிதப் பாடம் படிக்கிறது.
2) பிள்ளை கணிதப் பாடம் படிப்பிக்கிறது.
3) பிள்ளை பாடம் படிக்கிறது.

● இடைவெளிக்குப் பொருத்தமான சொல்லைத் தெரிவு செய்க.

04. அன்புடன் .....
1) பலகுவோம் 2) பழகுவேம் 3) பழகுவோம்

05. ..... வாங்குவோம்
1) கய்கறிகள் 2) காய்கறிகள் 3) காய்கரிகள்

● அடைப்புக்குள் காணப்படும் கணிதச் செய்கைக்குச் சமமான பெறுமதியை தெரிவு செய்க.

06. 15 + 20
1) 25 2) 30 3) 35

07. 45 - 9
1) 35 2) 36 3) 37

www.kcts.lk
Riyas Mohamed

www.lkdu.lk

● பின்வரும் உருவில் உள்ள வடிவங்களை வைத்து வினாக்களுக்கு விடை தருக.



09. மேலேயுள்ள உருவில் அதிகம் காணப்படும் வடிவம் யாது ?
1) வட்டம்
2) செவ்வகம்
3) முக்கோணம்

10. 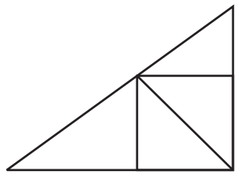

இவ்வுருவில் உள்ள முக்கோணிகளின் எண்ணிக்கை யாது ?

1) 4 2) 7 3) 8

11. 

இவ்வுருவில் உள்ள செவ்வகங்களின் எண்ணிக்கை யாது ?

1) 6 2) 5 3) 4

12. நான்கு முக்கோண முகங்களைக் கொண்ட திண்மத்தைத் தெரிவு செய்க.

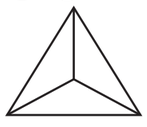
1)

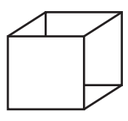
2)

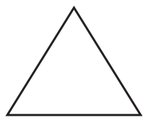
3)

13. 

இவற்றுள் கால்வாசிப் பழங்களின் எண்ணிக்கை யாது ?

1) 6 2) 4 3) 3

14. ஐந்நூற்றுத் தொண்ணூறு என்னும் எண்ணைத் தெரிவு செய்க.
1) 509 2) 905 3) 590

15. 500 என்னும் எண்ணுக்கு முன்னால் வரவேண்டிய எண் யாது ?
1) 489
2) 499
3) 599

KEC 2006 KANTALE EDUCATION CENTER SCHOLARSHIP PROJECT KANTALE

2021 இல் புலமைப் பரிசில் பரீட்சை எழுதும் மாணவர்களுக்கான வழிகாட்டல் செயலட்டை

புலமை

நுண்ணறிவு – 07

Teacher
MF. Riyas Mohamed
0777 15 18 28

தரம் 3 | புள்ளிகள்

பெயர் : .....

நேரம் 30 நிமிடம்

● முதலில் தரப்பட்டுள்ள உருவுக்கு மிகப் பொருத்தமான சொல்லைத் தெரிவு செய்க.

01. 
1) கடை
2) அழகு
3) நேரம்

02. 
1) பொழுது போக்கு
2) தொடர்பாடல்
3) வியாபாரம்

● வேறுபட்ட உருவின் கீழ்க் கீறிடுக.

03. 1)  2)  3) 

04. 1)  2)  3) 

● அகரவரிசை ஒழுங்கில் அமைந்த சொற்றொகுதியைத் தெரிவு செய்க.

05. 1) நகம், நான், நீ, நிழல், நுங்கு
2) அம்மி, ஆந்தை, இரவு, ஈட்டி, ஊதி
3) படம், பாட்டு, புடைவை, பிட்டு

06. 1) இஞ்சி, ஈட்டி, ஊதி, உரல், எறும்பு
2) கடல், காசி, கிழங்கு, கீதம், குளவி
3) தாகம், தட்டு, திங்கள், தீ, துன்பம்

07. குமார் ஒரு ஆண் பிள்ளை ஆவான். குமாரின் தம்பிக்கு இரண்டு சகோதரிகள் உள்ளனர். எனவே குமாருக்கு எத்தனை சகோதரிகள் உள்ளனர் ?
1) 1 2) 2 3) 3

08. குமாரின் பெற்றோருக்கு எத்தனை பிள்ளைகள் உள்ளனர் ?
1) 3 2) 4 3) 5

Riyas Mohamed

STUDY ONLINE

இணையத்தில் ஒரு கல்வி புரட்சி

தரம் 1 தொடக்கம்
A/L வரையான
எல்லா
தரத்தினருக்கும்
அனைத்துப்
பாடங்களையும்

தமிழ் மொழி மூலம்



ENGLISH MEDIUM

සිංහල මාධ්‍ය

இணையத்தில் கற்றுக்கொள்ளலாம்

WWW.LKEDU.LK

facebook.com/lkedulk facebook.com/groups/lkedu

ஒவ்வொரு நாளும் புதிது புதிதாக, பார்க்க மறவாதீர்கள்...

www.kec.lk

● கீழே சில பொருட்களின் விலைகள் அடங்கிய சிட்டை ஒன்று தரப்பட்டுள்ளது அதனை வைத்து விடை தருக.





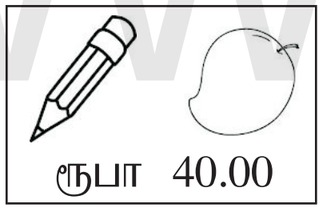

09. பென்சில் ஒன்றின் விலை யாது ?
1) 10.00
2) 15.00
3) 20.00

10. அப்பிள் பழமொன்றின் விலை யாது ?
1) 25.00
2) 30.00
3) 35.00

11. மாம்பழம் ஒன்றினதும் அப்பிள்பழம் ஒன்றினதும் விலை யாது ?
1) 50.00
2) 55.00
3) 60.00

● புள்ளிக்கோட்டில் வரவேண்டிய உருவைத் தெரிவு செய்க.

12.

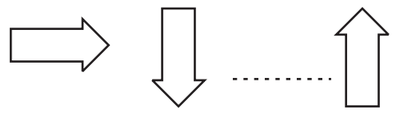

1) 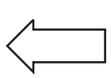
2) 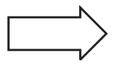
3) 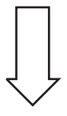

13.



1) 

2) 

3) 

14. அன்வரின் வயது 5 வருடங்கள் ஆகும். அமீரின் வயது அன்வரின் வயதின் இரு மடங்காகும். அதன்படி, இருவரினதும் வயதுகளின் கூட்டுத் தொகை யாது ?
1) 10 2) 15 3) 20

15. 31 நாட்களைக் கொண்ட மாதத்தைத் தெரிவு செய்க.
1) ஜனவரி 2) பெப்ரவரி 3) ஏப்றல்

KANTALE EDUCATION CENTER KEC 2006 SCHOLARSHIP PROJECT KANTALE

2021 இல் புலமைப் பரிசில் பரீட்சை எழுதும் மாணவர்களுக்கான வழிகாட்டல் செயலட்டை

புலமை

நுண்ணறிவு – 08

Teacher
MF. Riyas Mohamed
0777 15 18 28

தரம் 3 | புள்ளிகள் | பெயர் : ..... | நேரம் 30 நிமிடம்

● வித்தியாசமான உருவின் கீழ்க் கோடிடுக.

01. 1) 

2) 

3) 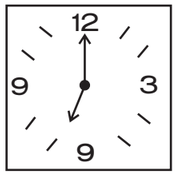

02. 1) 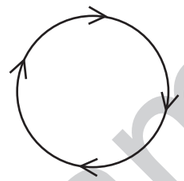
2) 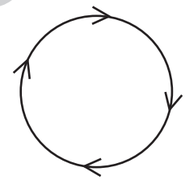
3) 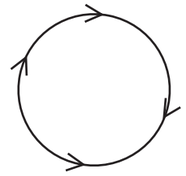

● வேறுபட்ட சொல்லின் கீழ்க் கீறிடுக.

03. 1) சூரியன் 2) கதிரவன்
3) பகலவன் 4) நிலா

04. 1) மாம்பழம் 2) பழம்
3) தோடம்பழம் 4) பலாப்பழம்

● சரியான விடையின் கீழ்க் கோடிடுக.

05. கால்வாசிக்கு நிறந்தீட்டப்பட்ட உருவைத் தெரிவு செய்க.

1) 
2) 
3) 

06. சுமதிக்கு வலது பக்கம் மரம் உள்ளது. சுமதிக்கு இடது பக்கத்தில் கார் உள்ளது. இதன்படி, நடுவில் இருப்பது
1) மரம் 2) சுமதி 3) கார்

07. வியாழன், புதன், செவ்வாய், ... புள்ளிக் கோட்டில் வரவேண்டியது
1) வெள்ளி 2) ஞாயிறு 3) திங்கள்

08. ஜனவரி, மார்ச், ... , ஜூலை புள்ளிக்கோட்டில் வரவேண்டியது
1) மே 2) ஜூன் 3) ஏப்றல்

Riyas Mohamed